Läxa 1

till

Till sidorna 6-9 i MatteSafari 1A.

- Hur många? Ringa in svaret.





- Hur många? Skriv svaret.



Kopiering av detta engångsmaterial är förbjuden enligt lag och gällande avtal.

- Hur många? Dra streck.

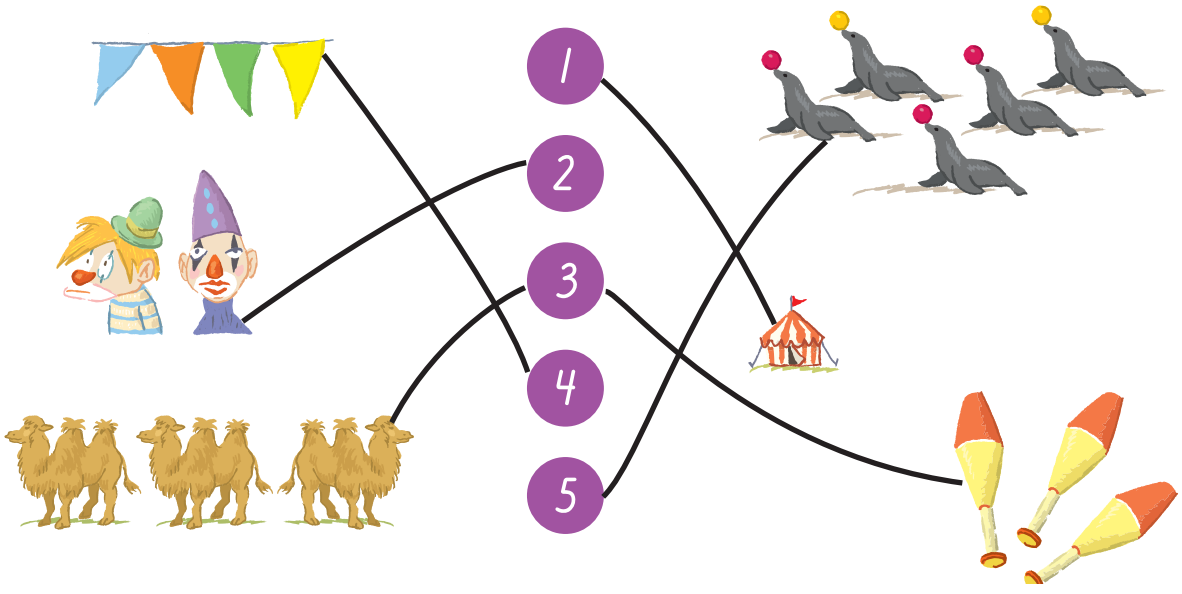

- Skriv talen från 1 till 5.

1 2 3 4 5

1 2 3 4 5

Kopiering av detta engångsmaterial är förbjuden enligt lag och gällande avtal.

Läxa 2

till

Till sidorna 10-13 i MatteSafari 1A.

- Måla 6.

Måla 7.

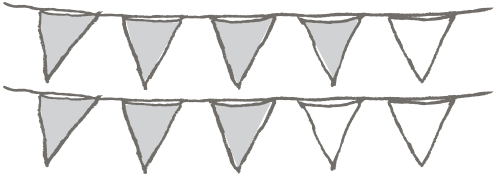

- Hur många? Dra streck.

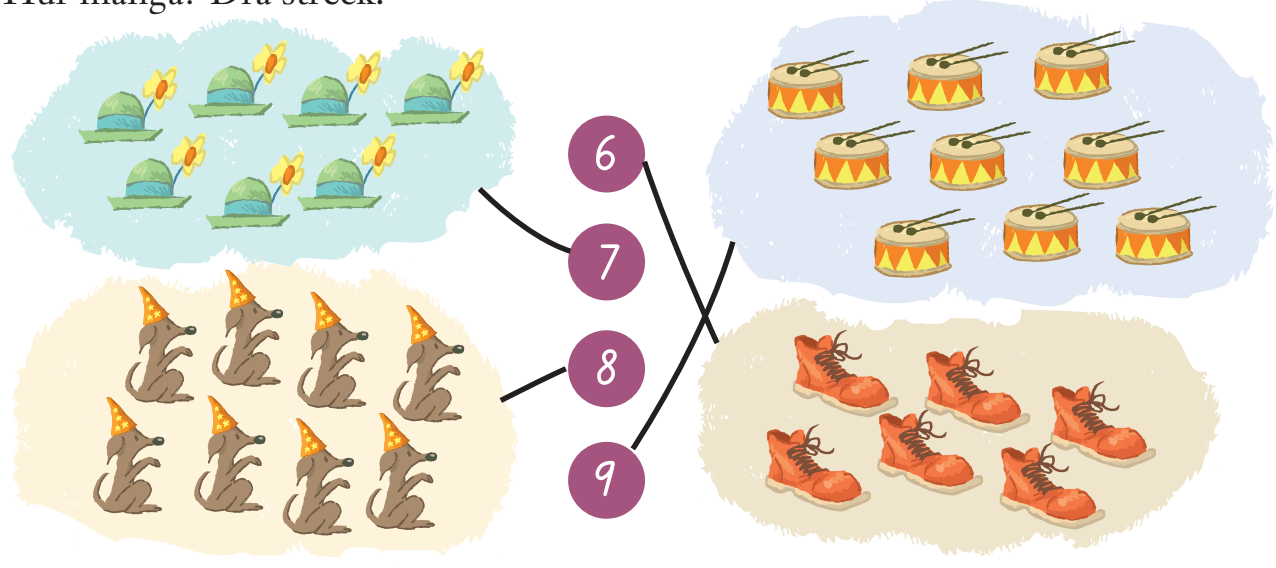

Kopiering av detta engångsmaterial är förbjuden enligt lag och gällande avtal.

- Ringa in 8.



Ringa in 9.



- Hur många bollar? Skriv svaret.

7

9

6

8

Kopiering av detta engångsmaterial är förbjuden enligt lag och gällande avtal.

Läxa 3

till

Till sidorna 14-17 i MatteSafari 1A.

- Skriv talen från 1 till 10.

- Dra streck från 1 till 10.

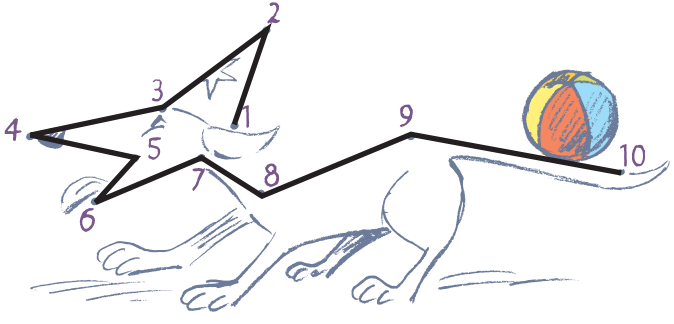

Kopiering av detta engångsmaterial är förbjuden enligt lag och gällande avtal.

- Hur många? Skriv svaret.


9

8

7

0

- Skriv talen från 0 till 10.

0 1 2 3 4 5 6 7 8 9 10

- Skriv = där det är lika.

2 = 2 3 5 7 = 7

Kopiering av detta engångsmaterial är förbjuden enligt lag och gällande avtal.

Läxa 4

till

Till sidorna 34-37 i MatteSafari 1A.

Hur många är de tillsammans?



3 + 2 = 5



1 + 3 = 4

2 + 1 = 3

2 + 3 = 5

Kopiering av detta engångsmaterial är förbjuden enligt lag och gällande avtal.

- Hur många är de tillsammans?



1 + 2 = 3



3 + 1 = 4

3 + 2 = 5

1 + 3 = 4

- Skriv och räkna ut.

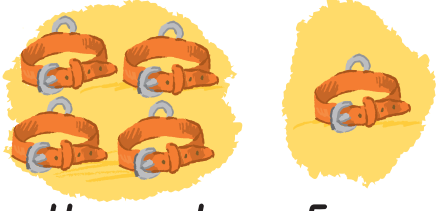

4 + 1 = 5

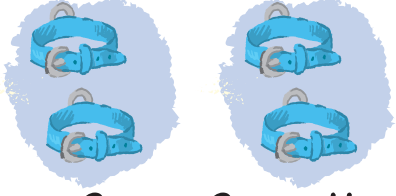

2 + 2 = 4

Kopiering av detta engångsmaterial är förbjuden enligt lag och gällande avtal.

Läxa 5

till

Till sidorna 38-40 i MatteSafari 1A.



2 + 1 = 3

1 + 2 = 3

3 + 0 = 3

0 + 3 = 3



2 + 2 = 4

1 + 3 = 4

3 + 1 = 4

4 + 0 = 4

0 + 4 = 4

Måla alla där svaret är 4.

Kopiering av detta engångsmaterial är förbjuden enligt lag och gällande avtal.



3 + 2 = 5

4 + 1 = 5

0 + 5 = 5

1 + 4 = 5

2 + 3 = 5

5 + 0 = 5

Ringa in alla där svaret är 5.



1 + 1 = 2

2 + 3 = 5

4 + 0 = 4

3 + 0 = 3

3 + 1 = 4

1 + 4 = 5

2 + 2 = 4

1 + 2 = 3

3 + 2 = 5

Kopiering av detta engångsmaterial är förbjuden enligt lag och gällande avtal.

Läxa 6

till

Till sidorna 41-43 i MatteSafari 1A.

- Dra streck till svaret.



- 1 + 3 = 4
- 2 + 1 = 3
- 2 + 0 = 2
- 4 + 1 = 5
- 3 + 2 = 5
- 1 + 4 = 5
- 2 + 2 = 4
- 0 + 4 = 4
- 2 + 3 = 5

Kopiering av detta engångsmaterial är förbjuden enligt lag och gällande avtal.

- Dra streck och räkna ut.



3 + 2 = 5

4 + 1 = 5

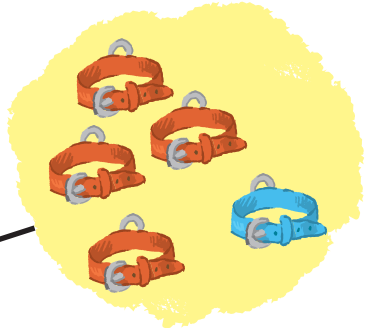

- Rita en räknesaga. Räkna ut.

3 + 1

3 + 1 = 4

Kopiering av detta engångsmaterial är förbjuden enligt lag och gällande avtal.

Läxa 7

till

Till sidorna 60-63 i MatteSafari 1A.

- Hur många är kvar?

3 - 1 = 2

3 - 2 = 1

5 - 1 = 4

4 - 1 = 3

4 - 2 = 2

5 - 2 = 3

Kopiering av detta engångsmaterial är förbjuden enligt lag och gällande avtal.

Hur många blir kvar? Stryk de du tar bort.

4 - 1 = 3

5 - 3 = 2



3 - 2 = 1

4 - 3 = 1

2 - 1 = 1

3 - 1 = 2

4 - 4 = 0

4 - 2 = 2

2 - 2 = 0

4 - 3 = 1

Kopiering av detta engångsmaterial är förbjuden enligt lag och gällande avtal.

Läxa 8

till

Till sidorna 64-67 i MatteSafari 1A.

- Dra streck till svaret.



- 5 - 1 = 4 4 - 1 = 3 5 - 2 = 3

5 - 3 = 2 3 - 3 = 0 5 - 4 = 1

Kopiering av detta engångsmaterial är förbjuden enligt lag och gällande avtal.

- Dra streck. Räkna ut.

4 - 2 = 2

5 - 4 = 1

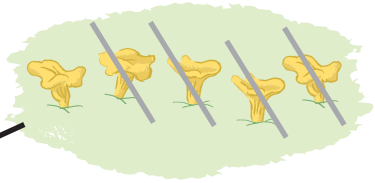

- Rita en räknesaga. Räkna ut.

4 - 3

4 - 3 = 1

Kopiering av detta engångsmaterial är förbjuden enligt lag och gällande avtal.

Läxa 9

till

Till sidorna 68-69 i MatteSafari 1A.

- Räkna ut.

3 + 1 = 4

2 + 1 = 3



3 + 2 = 5

3 − 1 = 2

2 − 1 = 1



3 − 2 = 1

Kopiering av detta engångsmaterial är förbjuden enligt lag och gällande avtal.

Addition eller subtraktion? Ringa in.

4 + 1 4 − 1

2 + 1 2 − 1

3 + 1 3 − 1



3 + 2 3 − 2

4 − 1 = 3 2 + 3 = 5 5 − 3 = 2

3 + 1 = 4 4 − 3 = 1 5 − 2 = 3

Kopiering av detta engångsmaterial är förbjuden enligt lag och gällande avtal.

Läxa 10

till

Till sidorna 86-91 i MatteSafari 1A.

- Hur många är de tillsammans?



5 + 1 = 6



2 + 4 = 6

- 4 + 2 = 6 | 1 + 6 = 7 | 1 + 5 = 6

  0 + 6 = 6 | 3 + 3 = 6 | 7 + 0 = 7

- Måla alla där svaret är 7.

Kopiering av detta engångsmaterial är förbjuden enligt lag och gällande avtal.

Dra streck till svaret.



Kopiering av detta engångsmaterial är förbjuden enligt lag och gällande avtal.

Läxa 11

till

Till sidorna 92-95 i MatteSafari 1A.

- Titta på bilden. Skriv talet som fattas.

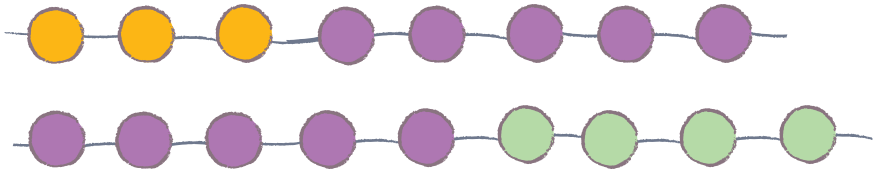

3 + 5 = 8

5 + 4 = 9

- Måla alla där svaret är 8.



- Måla alla där svaret är 9.



Kopiering av detta engångsmaterial är förbjuden enligt lag och gällande avtal.

- 2 + 6 = 8
- 1 + 8 = 9
- 4 + 4 = 8
- 6 + 3 = 9
- 7 + 1 = 8
- 5 + 3 = 8
- 7 + 2 = 9
- 5 + 4 = 9

- Vilka är 8 tillsammans? Dra streck.

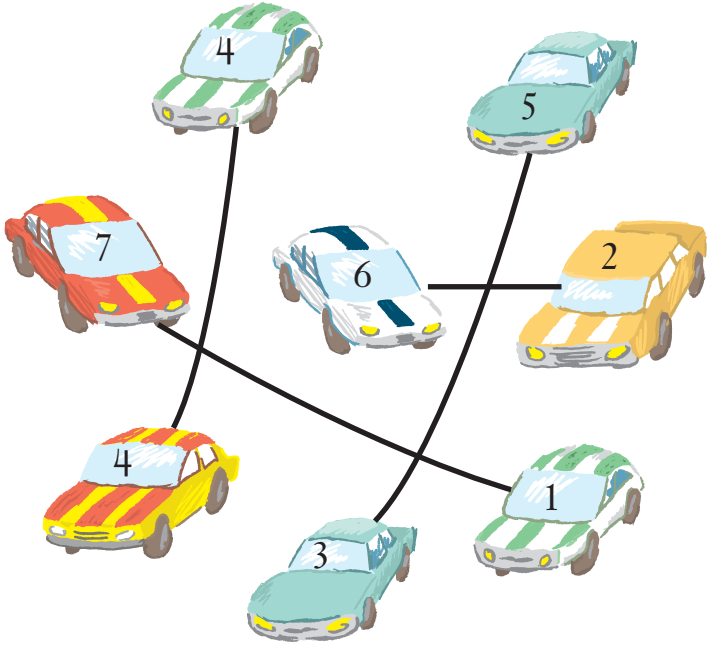

- Vilka är 9 tillsammans? Dra streck.



Kopiering av detta engångsmaterial är förbjuden enligt lag och gällande avtal.

Läxa 12 till

Till sidorna 96-99 i MatteSafari 1A.

- Skriv talet som fattas. Det ska bli 10 tillsammans.

- Måla alla rutor som har svaret 10.

1 + 9	5 + 2	3 + 7	3 + 6	5 + 5	2 + 5
6 + 2	2 + 8	4 + 4	4 + 6	1 + 2	10 + 0

Kopiering av detta engångsmaterial är förbjuden enligt lag och gällande avtal.

- Hur mycket kostar sakerna tillsammans?

3 + 4 = 7

Svar: 7 kr

6 + 2 = 8

Svar: 8 kr

- Hur många hästar har Trixi?



3 + 6 = 9

Svar: 9 hästar

- Hur många bollar har Tanja?

7 + 3 = 10

Svar: 10 bollar

Kopiering av detta engångsmaterial är förbjuden enligt lag och gällande avtal.

Läxa 13

till

Till sidorna 116-121 i MatteSafari 1A.

- Hur många är kvar?

6 - 3 = 3

7 - 3 = 4

6 - 1 = 5

7 - 4 = 3

- Måla den där svaret är 2.

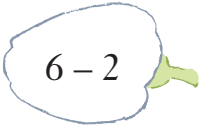

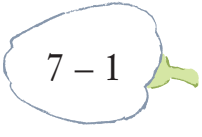

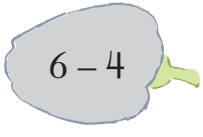

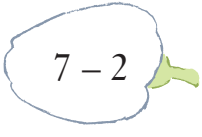

© Kopiering av detta engångsmaterial är förbjuden enligt lag och gällande avtal.

- Dra streck till svaret.

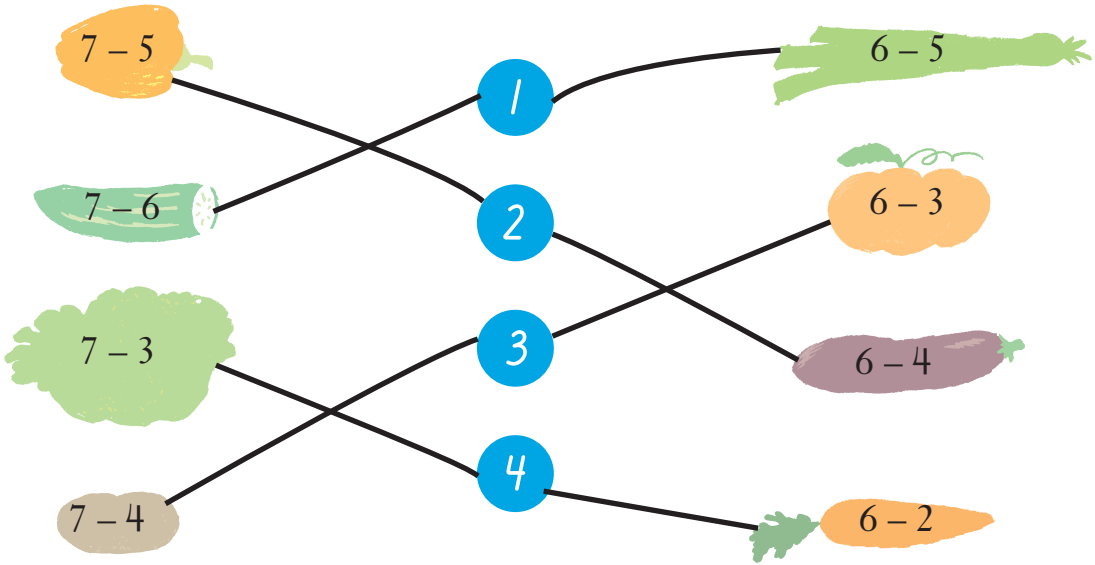

- 7 - 2 = 5
- 7 - 7 = 0
- 6 - 3 = 3
- 6 - 6 = 0
- 6 - 1 = 5
- 7 - 2 = 5
- 7 - 6 = 1
- 7 - 5 = 2
- 7 - 1 = 6

Kopiering av detta engångsmaterial är förbjuden enligt lag och gällande avtal.

Läxa 14

till

Till sidorna 122-125 i MatteSafari 1A.

- Räkna ut. Skriv rätt bokstav i rutan.

9 - 4 = 5 [O]

8 - 2 = 6 [S]

8 - 1 = 7 [T]

9 - 6 = 3 [A]

9 - 1 = 8 [R]

9 - 2 = 7 [T]

8 - 3 = 5 [O]

9 - 5 = 4 [M]

8 - 5 = 3 [A]

8 - 1 = 7 [T]

3	4	5	6	7	8
A	M	O	S	T	R

Kopiering av detta engångsmaterial är förbjuden enligt lag och gällande avtal.

- Dra streck till rätt skål.

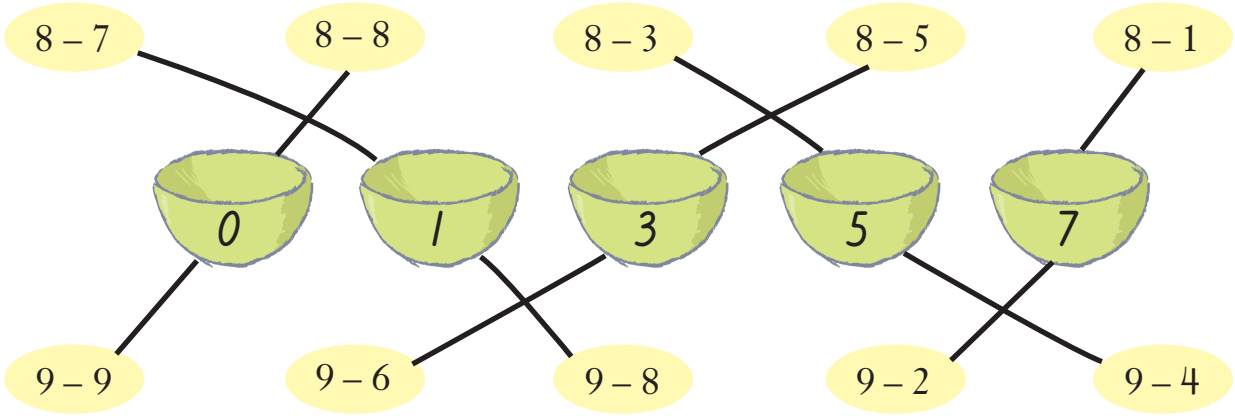

- Måla alla med svaret 3.



Kopiering av detta engångsmaterial är förbjuden enligt lag och gällande avtal.

Läxa 15 till

Till sidorna 126-129 i MatteSafari 1A.

- 10 - 8 = 2 10 - 1 = 9 10 - 5 = 5

  10 - 4 = 6 10 - 2 = 8 10 - 3 = 7

  10 - 7 = 3 10 - 6 = 4 10 - 9 = 1

- Måla den där svaret är 2. Ringa in den där svaret är 7.



Kopiering av detta engångsmaterial är förbjuden enligt lag och gällande avtal.

- Trixi har 10 koppar.
  2 går sönder.
  Hur många är hela?

  10 - 2 = 8

  Svar: 8 koppar

- Tim har 10 morötter.
  Han äter 1.
  Hur många är kvar?

  10 - 1 = 9

  Svar: 9 morötter

- Rita en räknesaga. Räkna ut.

10 - 6

10 - 6 = 4

Kopiering av detta engångsmaterial är förbjuden enligt lag och gällande avtal.