Arbetsblad

NAMN: _____

5:1 Månad och kvartal samt datum

1 Fyll i årets månader.

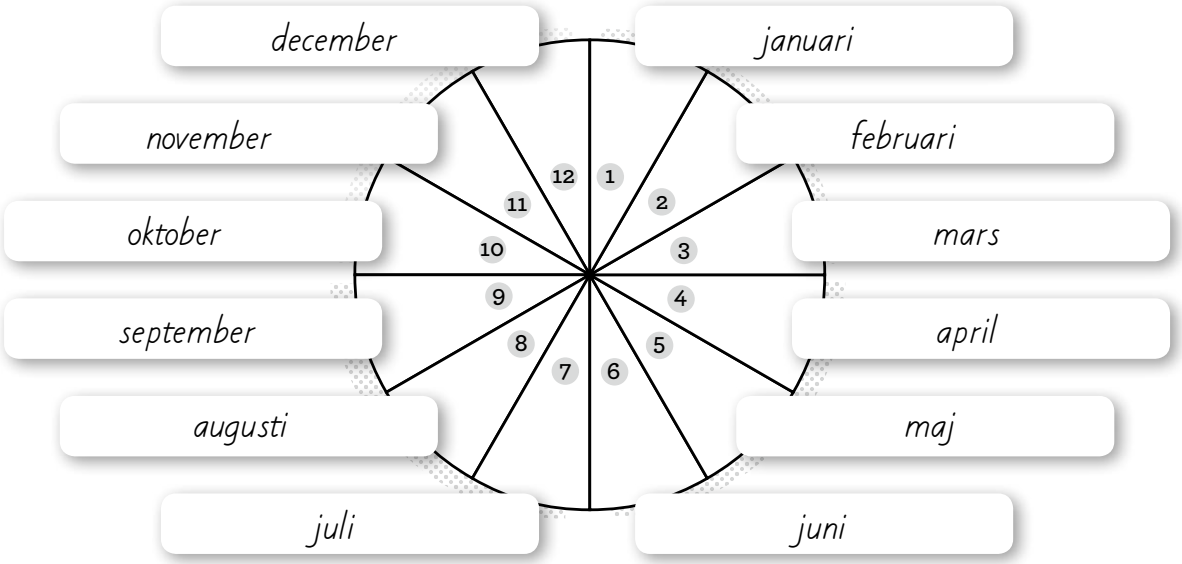

2 Färglägg

a) första kvartalet blått

b) andra kvartalet rött

c) tredje kvartalet grönt

d) fjärde kvartalet gult

3 Skriv datumet på tre olika sätt.

a)

2005-04-13

13/4 2005

13 april 2005

b)

1997-11-26

26/11 1997

26 november 1997

c)



2015-05-30

30/5 2015

30 maj 2015

4 Skriv dagens datum på tre olika sätt.

_____ _____ _____

KOPIERING TILLÅTEN © SANOMA UTBILDNING AB
KOLL PÅ MATEMATIK 4A

Arbetsblad

NAMN: _____

5:2 Tidsenheterna vecka och dygn

1 **a)** Förklara vad ett dygn är. *Den tid det tar för jorden att snurra ett helt varv. 24 h*

b) Hur många dygn är en vecka? *7*

c) Hur många dygn är ett år? *365*

d) Ungefär hur många veckor går det på ett år? *52*

e) Hur många månader är det på ett år? *12*

Läs av almanackan.

2 Vilken veckodag är det den

a) 11 mars *fredag*

b) 27 april *onsdag*

c) 3 januari *måndag*

d) 18 juni *lördag*

3 Vilken vecka är det den

a) 7/2 *6*

b) 23/5 *21*

c) 31/1 *5*

d) 9/6 *23*

4 **a)** Vilka datum är det flaggdag i juni? *6, 12 och 25*

b) Vilket datum är årets första fullmåne? *19 januari*

c) Vilka har namnsdag den 23 februari? *Torsten, Torun*

d) Vilket datum har tisdag vecka 7? *15/2*

KOPIERING TILLÅTEN ©SANOMA UTBILDNING AB

Arbetsblad

5:3 Klockslag

NAMN: _____

Skriv rätt klockslag på tre olika sätt. Kom ihåg att göra minut- och timvisare olika långa.



fem i tio

9.55

21.55



nio

9.00

21.00

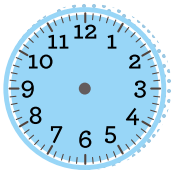

kvart över sju

7.15

19.15

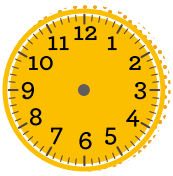

tjugo i tre

2.40

14.40

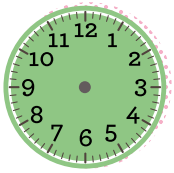

fem över halv ett

12.35

00.35

tio i fem

16.50

05.50

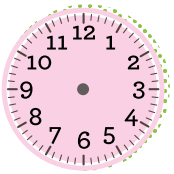

fem över elva

11.05

23.05

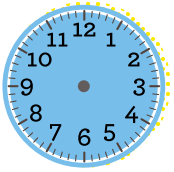

tio över sex

6.10

18.10

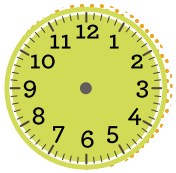

tjugo över två

14.20

2.20

fem i halv fyra

3.25

15.25

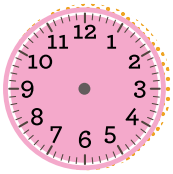

11.30

halv tolv

23.30



kvart i åtta

19.45

7.45

KOPIERING TILLÅTEN © SANOMA UTBILDNING AB
KOLL PÅ MATEMATIK 4A

Arbetsblad

NAMN: _____

5:5 Tidsenheterna timme, minut och sekund

1 **a)** ett dygn = 24 h

b) ett halvt dygn = 12 h

c) ett och ett halvt dygn = 36 h

d) två och ett halvt dygn = 60 h

2 **a)** en timme = 60 min

b) en halv timme = 30 min

c) en och en halv timme = 90 min

d) två och en halv timme = 150 min

3 **a)** 60 s = 1 min

b) 120 s = 2 min

c) 180 s = 3 min

d) 240 s = 4 min

4 **a)** en och en halv minut = 90 s

b) två och en halv minut = 150 s

c) tre och en halv minut = 210 s

d) fyra och en halv minut 270 s

5 Hur många minuter och sekunder är

a) 70 s = 1 min 10 s

b) 130 = 2 min 10 s

c) 160 s = 2 min 40 s

d) 190 s 3 min 10 s

6 Hur många timmar och minuter är

a) 80 min = 1 tim 20 min

b) 140 min = 2 tim 20 min

c) 155 min = 2 tim 35 min

d) 185 min = 3 tim 5 min



KOPIERING TILLÅTEN © SANOMA UTBILDNING AB
KOLL PÅ MATEMATIK 4A

Arbetsblad

NAMN: _____

5:6 Beräkna tidsskillnader

Hur stor är tidsskillnaden?

1 **a)**

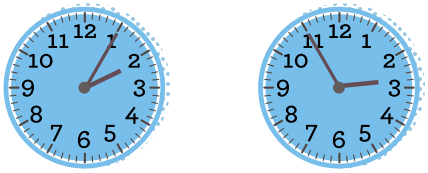

50 min

b)



20 min

2 **a)**

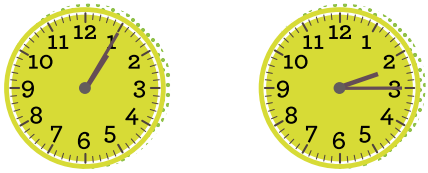

1 h 10 min

b)



1 h 30 min

3 **a)**

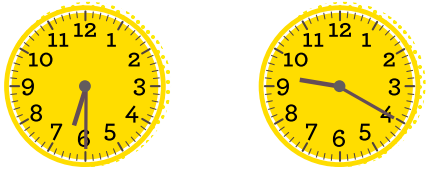

2 h 50 min

b)



40 min

4 **a)** 15.35 – 17.15 1 h 40 min

b) 19.45 – 22.20 2 h 35 min

5 **a)** 12.50 – 17.40 4 h 50 min

b) 16.20 – 21.05 4 h 45 min

6 **a)** 17.05 – 19.45 2 h 40 min

b) 15.30 – 21.25 5 h 55 min

7 Hur mycket är klockan om 4 timmar och 10 minuter?

a)

11.40

b)

15.30

KOPIERING TILLÅTEN ©SANOMA UTBILDNING AB