Namn: _____

Problemlösning, rita

Klipp repet i tre lika långa bitar. Hur många klipp behövs?

Svar: 2 klipp

Rita och visa hur du löser uppgifterna.

- Hur många knutar behövs för att knyta ihop dem till ett långt snöre?

Svar: _____

- Morfar äter halva pizzan.
  Du äter en fjärdedel.
  Hur stor del blir kvar?

Svar: _____

- Tim dukar långbord för 10 personer.
  Hur många små bord behöver han?

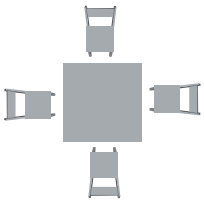

Svar: _____

- Det finns tre cykelställ med fem cyklar i varje.
  Hur många hjul har alla cyklarna?

Svar: _____

KOPIERING TILLÅTEN
© Sanoma Utbildning AB/safariwebben.se

Namn: _____

Problemlösning, rita

Visa hur du löser uppgifterna.

- Ungefär hur högt sitter fågeln?

  Svar: _____

- Ungefär hur högt är trädet?

  Svar: _____

- Tanja pärlar tre pärlor på en tråd.
  Pärlorna kan sitta i olika ordning. Rita sex olika varianter.

KOPIERING TILLÅTEN
© Sanoma Utbildning AB/safariwebben.se

Namn: _____

Problemlösning, prova

Tim har 8 bollar. De små är 2 fler än de stora.
Hur många bollar är små?



2 stora bollar

4 små bollar

3 stora bollar

5 små bollar

Svar: 5 små bollar

Visa hur du löser uppgifterna.

- Bulle och saft kostar 16 kr tillsammans.
  Bullen kostar 4 kr mer än saften. Vad kostar bullen?

Svar: _____

- Trixi tar 7 kakor. I fickan lägger hon 3 fler än i handen. Hur många har hon i handen?



Svar: _____

KOPIERING TILLÅTEN
© Sanoma Utbildning AB/safariwebben.se

Namn: _____

Problemlösning, prova

Visa hur du löser uppgifterna.

- De runda bröden är hälften så många som de avlånga.
  Tillsammans är det 9 bröd. Hur många bröd är runda?

  Svar: _____

- Li är dubbelt så gammal som Teo.
  Tillsammans är de 12 år. Hur gammal är Li?

  Svar: _____



- Det är 20 barn i Teos grupp.
  Flickorna är 4 fler än pojkarna.
  Hur många är flickorna?

  Svar: _____

- Ali, Bea och Cilla har sammanlagt 10 kulor.
  Ali och Bea har tillsammans 2 fler än Cilla.
  Hur många kulor har Cilla?

  Svar: _____

KOPIERING TILLÅTEN
© Sanoma Utbildning AB/safariwebben.se

Namn: _____

Flera uträkningar

Tanja har 3 tjugokronorssedlar och 3 tior.
Hur många kronor har hon?

Först, *räkna ut sedlarnas värde.*

60 kr

Sedan, *tiornas värde.*

30 kr

Sist, *lägg ihop.*

60 + 30 = 90

Svar: 90 kr

Visa hur du löser uppgifterna.

- I lådan finns 6 tior och 4 femmor.
  Hur många kronor är det?

  Svar: _____

- Tim har 28 kr att köpa klistermärken för.
  De kostar 2 kr styck eller ett ark för 8 kr.
  Vilka ska han köpa?

  Svar: _____

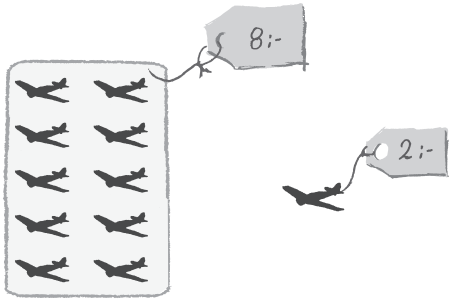

- Tanja får 25 kr när hon går ut med farmors hund.
  Hur många gånger har hon gått ut med hunden
  när hon fått 175 kr?

  Svar: _____

KOPIERING TILLÅTEN
© Sanoma Utbildning AB/safariwebben.se

Namn: _____

Flera uträkningar

Visa hur du löser uppgifterna.

- Trixi har 40 muffins. Hon ska lägga dem i påsar med 12 muffins i varje. Hur många blir över?

  Svar: _____

- Trixi handlar för 20 kr. Vad kan hon ha köpt? Det finns två lösningar.

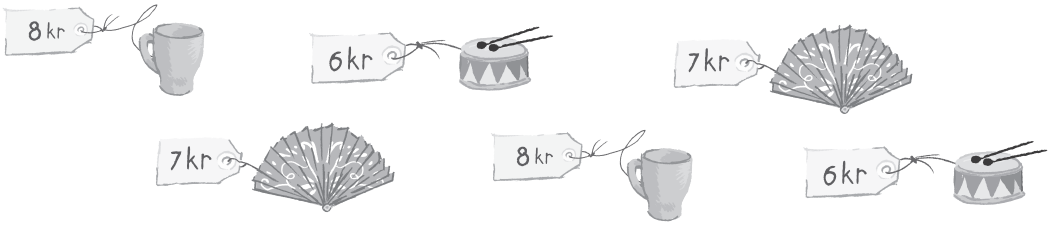

  Svar: _____

  _____

- Hur högt är Kaknästornet? Skriv det tal som har

  sex hundratal, ett tiotal och fyra ental. _____

  Lägg till fyra tiotal. _____

  Minska med fem hundratal. _____

  Skriv talet efter. _____

  Så högt är Kaknästornet utan mast! _____ m

- Du betalar 20 kr för ett limstift och en skrivbok. Hur mycket får du tillbaka?

  Svar: _____

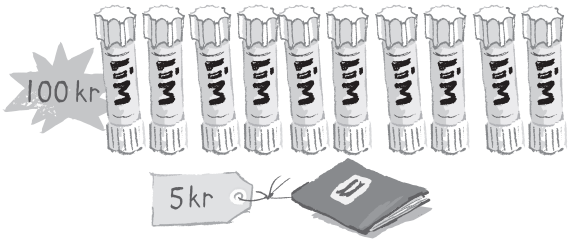

KOPIERING TILLÅTEN
© Sanoma Utbildning AB/safariwebben.se